1)

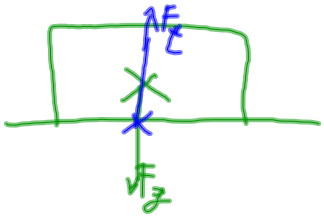

jan. 15-8:18

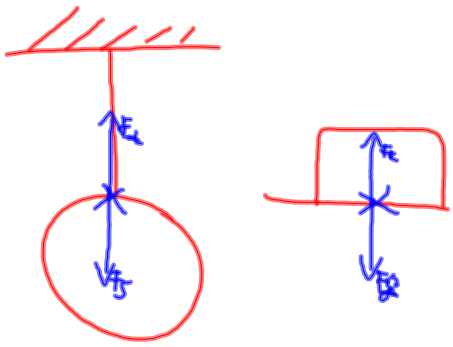

jan. 15-8:22

1. Hatás-ellenhatás törvénye
(Newton III. törvénye)

55.oldal

2. Newton I. törvénye:
(tehetetlenség törvénye)

40.o.

jan. 15-8:37

3. Rajzold be a golyó és az asztal kölcsönhatásában fellépő erőket!

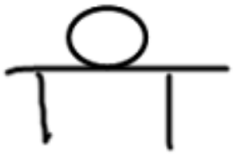

jan. 15-8:38

5.Segíts Dezsőnek és Zsuzsinak!

30kg → 300N

jan. 15-8:38

6. Mekkora a sűrűsége egy 3 t tömegű tölgyfának, ha a térfogata $5m^3$?

$m = 3t = 3000kg$
$V = 5m^3$
$\rho = ?$

$\rho = \frac{m}{V} = \frac{3000kg}{5m^3} = 600 \frac{kg}{m^3}$

jan. 15-8:38

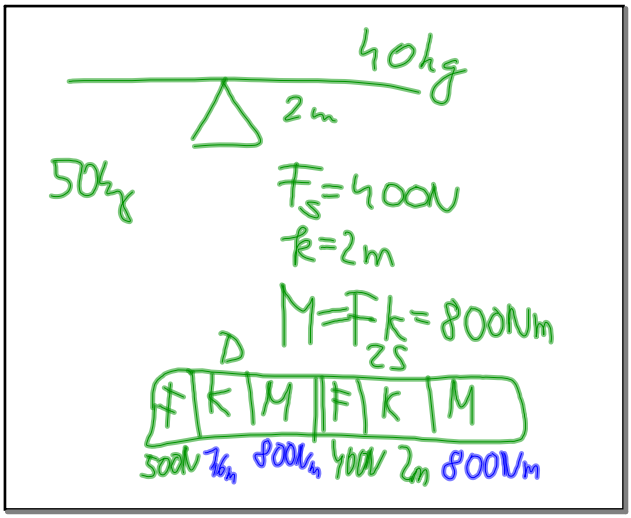
40kg
2m
50kg
$F_s = 400N$
$k = 2m$
$M = F_{2s} k = 800Nm$
D
F
K
M
F
K
M
500N
1,6m
800Nm
400N
2m
800Nm

jan. 15-8:37