1.Egészítsd ki a mondatokat!

A testeket felületek határolják, amelyek lehetnek _____ vagy _____felületek.

A felületeket vonalak határolják, amelyek lehetnek _____ vagy _____ vonalak.

görbe sík

egyenes görbe

2. Mekkora az A és B pont távolsága?

3. Egészítsd ki a mondatot majd rajzolj két vonalzó segítségével az e egyenessel párhuzamos egyenest !

Két egyenes párhuzamos, ha egy _____ vannak és _____ metszik egymást.

síkban nem

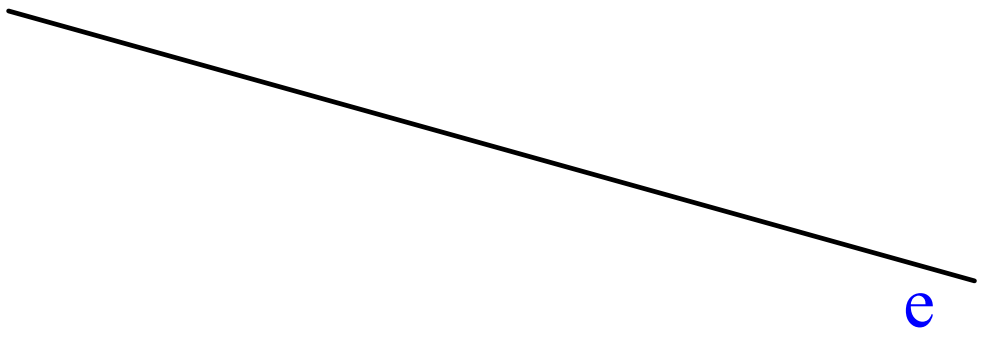

4. Mekkora az f egyenes és a P pont távolsága?
(Két vonalzóval rajzolj a P-n keresztül merőleges egyenest az f-re!)

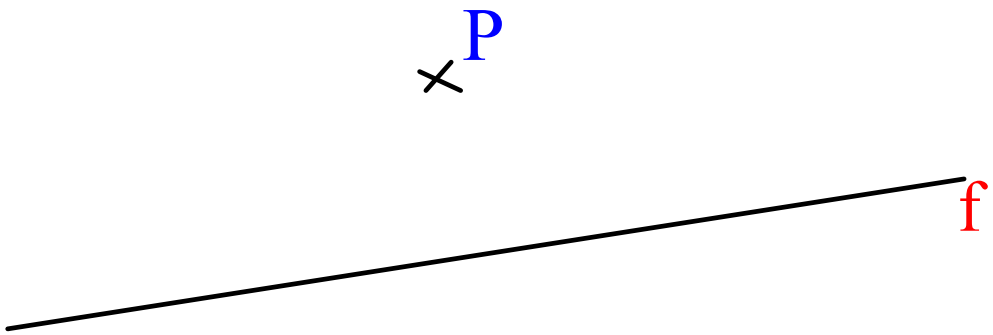

5. Csoportosítsd az alábbi alakzatokat, melyik konvex és melyik nem konvex (konkáv)!

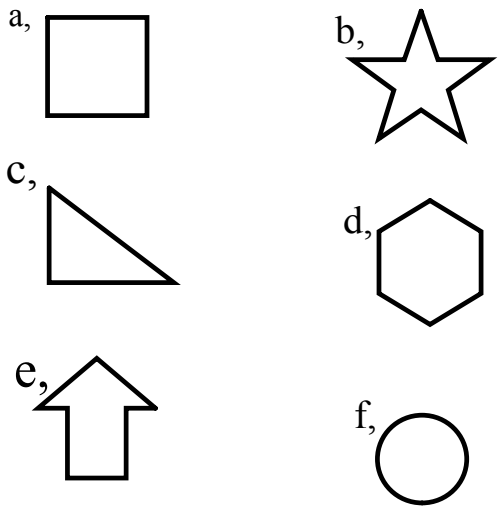

konvex	konkáv

6. Nevezd el az alábbi sokszög csúcsait, oldalait és rajzold be zölddel az AC átlóját!

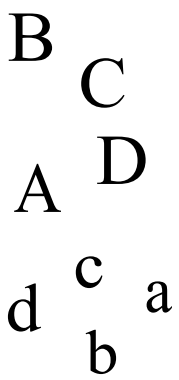

7. Egészítsd ki a következő mondatot!

Egy adott ponttól egy adott távolságra lévő pontok halmaza a síkban a _____ .

A középpontot a körvonal tetszőleges pontjával összekötő szakasz a _____ .

A körvonal egy része a _____ .

A körvonal által határolt síkidom a _____ .

A körvonal két pontját összekötő olyan szakasz, amely áthalad a középponton.

sugár körív

körvonal átmérő körlap

8. Hány éle, lapja és csúcsa van az alábbi testnek ?

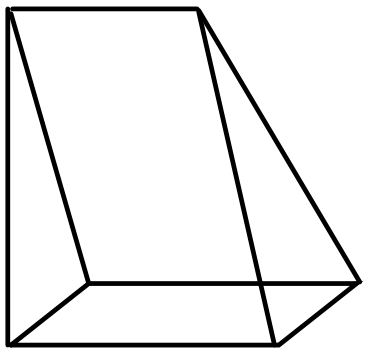

él : ____ db
lap : ____ db
csúcs: ____db